۲۳

OstadRiazi.com

بشمار و بنویس

جاهای خالی را پر کن.

۸ تا ۸ تا بشمار و رنگ کردن را ادامه بده.



۸ ۱۶ ۲۴



۸ ۱۶ ۲۴

۱	۲	۳	۴	۵	۶	۷	۸	۹	۱۰
۱۱	۱۲	۱۳	۱۴	۱۵	۱۶	۱۷	۱۸	۱۹	۲۰
۲۱	۲۲	۲۳	۲۴	۲۵	۲۶	۲۷	۲۸	۲۹	۳۰
۳۱	۳۲	۳۳	۳۴	۳۵	۳۶	۳۷	۳۸	۳۹	۴۰
۴۱	۴۲	۴۳	۴۴	۴۵	۴۶	۴۷	۴۸	۴۹	۵۰
۵۱	۵۲	۵۳	۵۴	۵۵	۵۶	۵۷	۵۸	۵۹	۶۰

۸_۱۶_۲۴_۳۲_۴۰_۴۸_۵۶

+۸ +۸ +۸

با توجّه به اینکه جمع کردن عددها برای پیدا کردن عددهای بعدی الگو مورد نظر نیست
کردن کامل کنند.

از فرزند خود بخواهید در مورد الگوهایی توضیح دهد که در شکل‌ها و جدول اعداد می‌بیند.

OstadRiazi.com

بشمار و بنویس

جاهای خالی را با عدد مناسب پر کن.

بازی را با توجّه به توضیحات آن انجام بده.

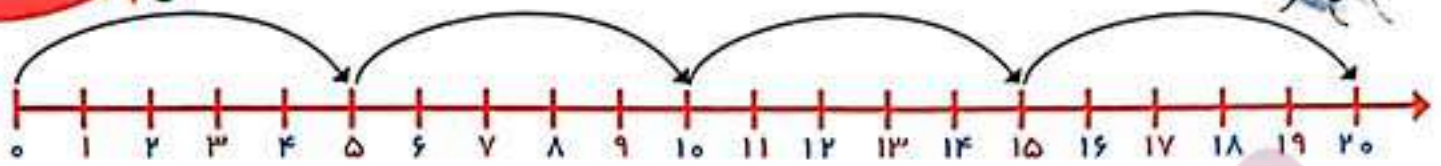

۰ ۵ ۱۰ ۱۵ ۲۰

یک مهره روی یکی از عددهای ۱ تا ۵ بگذار. حالا دستورهای زیر را دنبال کن. آخر کار، مهره روی چه عددی است؟

۱) ۵ خانه برو جلو ۲) ۱۰ خانه برو جلو ۳) ۵ خانه برگرد عقب

۴) ۱۰ خانه برو جلو ۵) ۵ خانه برگرد عقب

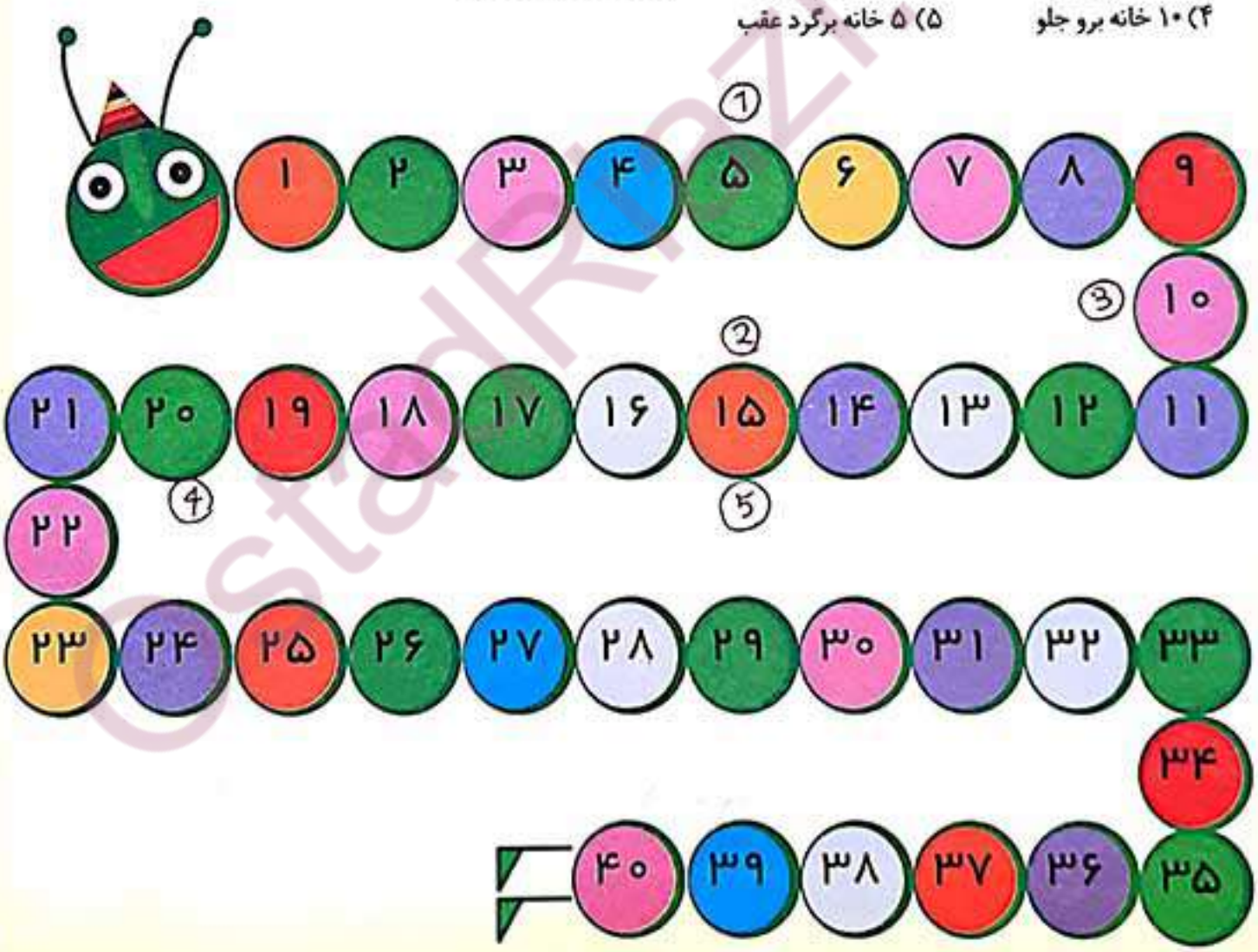

OstadRiazi.com

هدف اصلی این صفحه، دنبال کردن دستورالعمل و همچنین شمردن رو به جلو و عقب ۵

بازی بالا را می‌توانید با شروع از عددهای مختلف با فرزند خود تمرین کنید.

بشمار و بنویس

جاهای خالی را با عدد مناسب پر کن.

عددهایی را که به حروف نوشته شده است، به عدد بنویس.

۵ + ۵ + ۵ + ۴ = ۱۹

۵ + ۵ + ۵ + ۵ = ۲۰

۱۰ + ۱۰ + ۵ + ۵ + ۵ = ...

۲۰ + ۱۰ + ۵ − ۵ = ۳۰

۵ + ۵ + ۲ = ۱۲

۲۰ + ۱۰ + ۵ + ۳ = ۳۸

۱۰ + ۵ + ۳ = ۱۸

۲۰ + ۵ + ۱۰ − ۱۰ = ۲۵

۱۰ + ۲۰ + ۵ + ۴ = ۳۹

۲۰ + ۲۰ + ۱۰ + ۵ = ۵۵

یازده ۱۱ نوزده ۱۹ چهل و سه ۴۳

بیست ۲۰ سی و یک ۳۱ پنجاه و هفت ۵۷

هدف این صفحه، تمرین جمع و تفریق‌های مضرب‌های ۱۰ و یک عدد یک رقمی است. هم[illegible]ود.

فرزند شما برای جمع و تفریق می‌تواند با روشی که در این کتاب یاد گرفته است از انگ[illegible] او را به عددهای پایین صفحه جلب کنید که به حروف نوشته شده است.

OstadRiazi.com

دستورالعمل‌های زیر را دنبال کن تا شکل، رسم شود.

جواب جمع و تفریق را بنویس، مقایسه کن و علامت مناسب را انتخاب کن.

۱) از کمترین عدد شروع کن.
۲) عددها را با خط کش به ترتیب به هم وصل کن.
۳) دوباره به عدد ۱۹ برگرد.

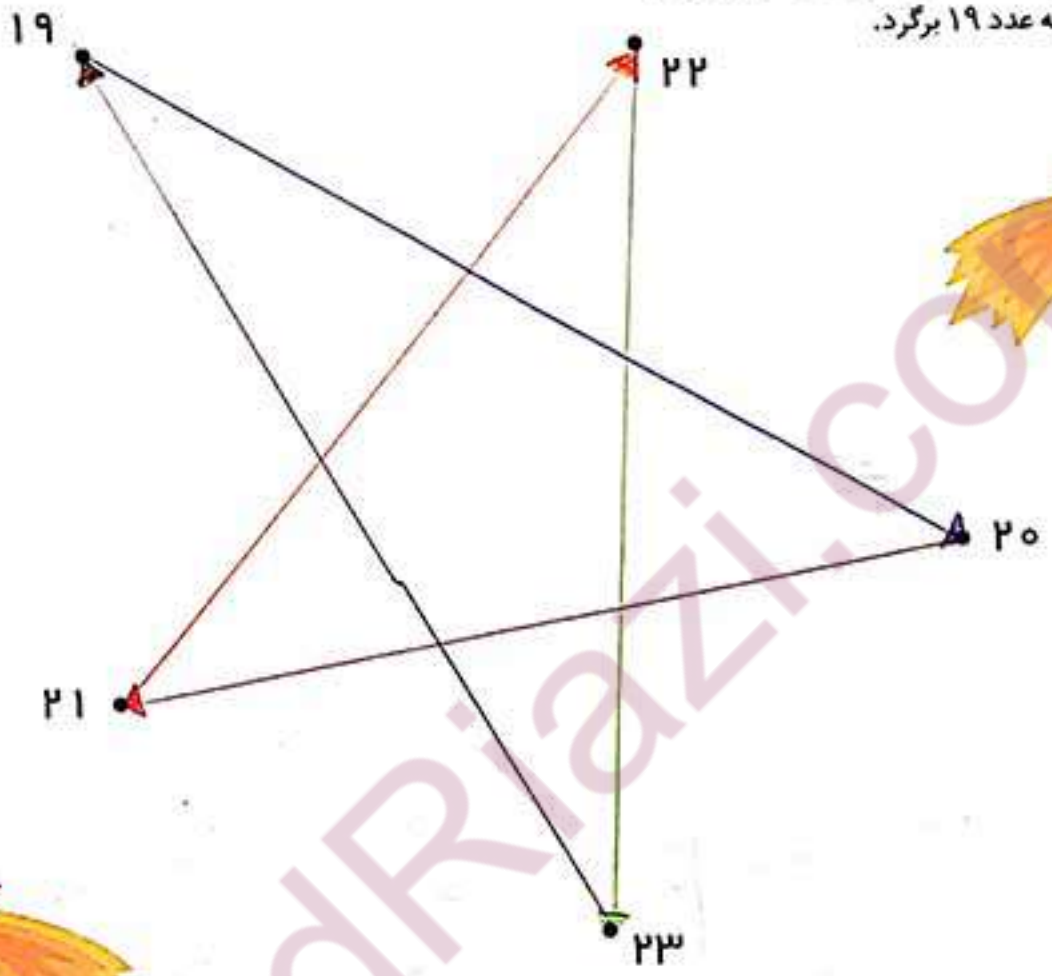

۲۰+۳۰ = ۵۰ ? ۶۰ − ۱۰ = ۵۰

۱۰ + ۸ = ۱۸ ? ۱۰ + ۷ = ۱۷

۲۵ − ۵ = ۲۰ ? ۱۵ + ۱۰ = ۲۵

هدف این صفحه علاوه بر استفاده از ابزار، دنبال کردن دستورالعمل (الگوریتم) نیز هست.
تمرین‌های پایین صفحه برای یادآوری جمع و تفریق بدون شکل و به صورت ذهنی است.

OstadRiazi.com

با ابزار کار کن

به کمک شکل، مقایسه کن و علامت مناسب(< = >) بگذار.

عددهای مثل هم را با خط کش به هم وصل کن.

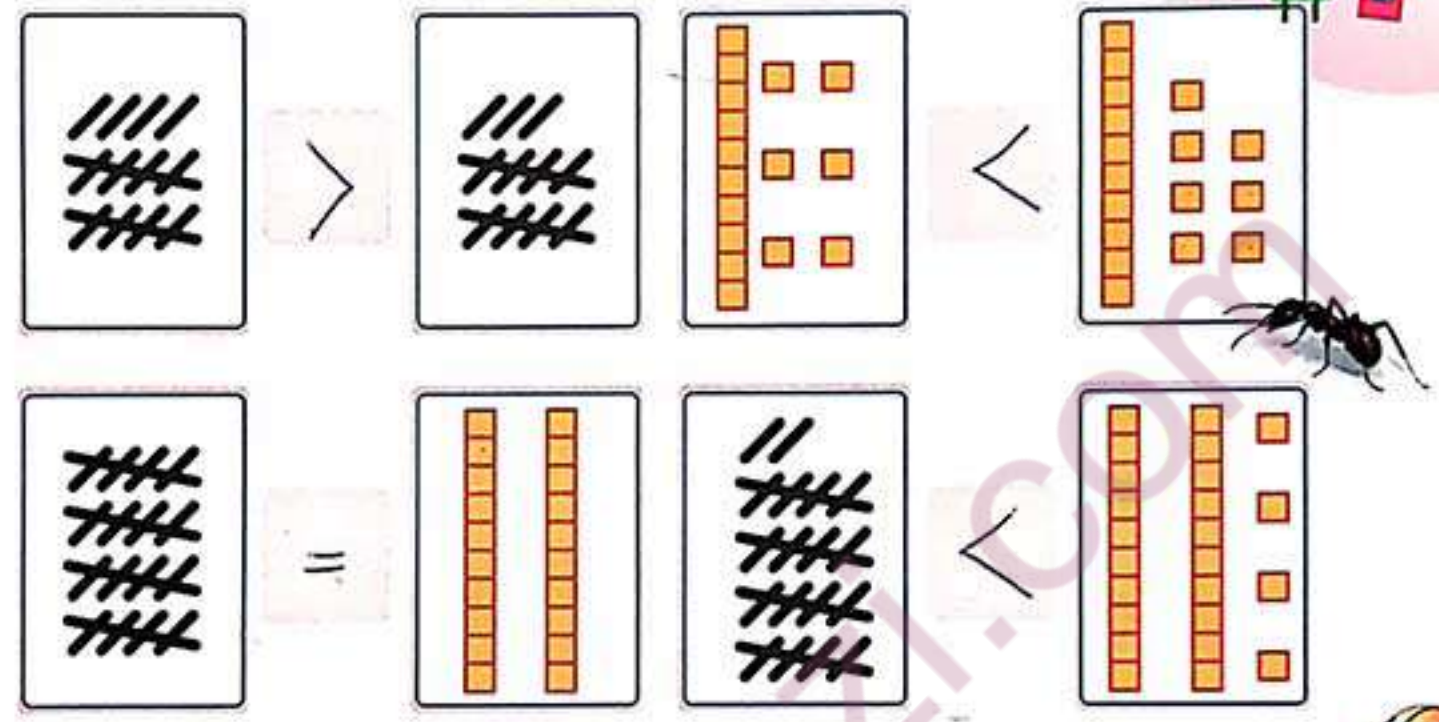

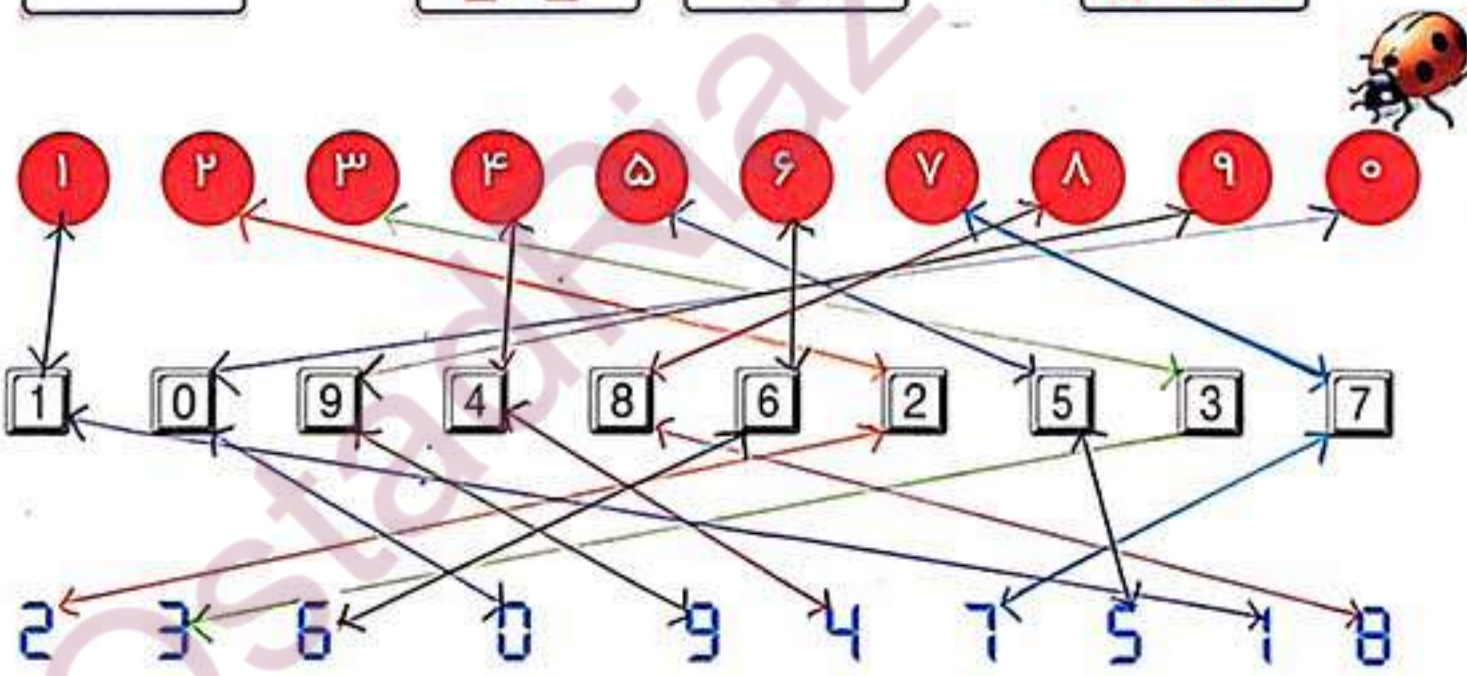

هدف این صفحه آشنایی دانش‌آموز با ماشین حساب و عددهای انگلیسی روی صفحه‌ی

عددهای مختلف یک رقمی را روی ماشین حساب به فرزند خود نشان دهید تا با این

OstadRiazi.com

بشمار و بنویس

جاهای خالی را پر کن.

مسئله‌ها را با هر روشی که می‌خواهی حل کن.

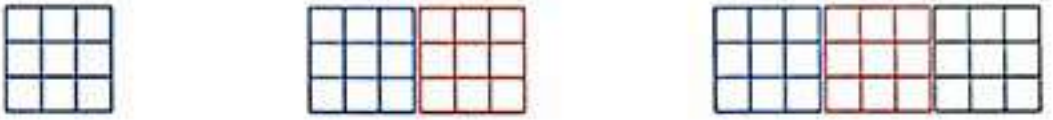

۹ ۱۸ ۲۷

۹ ۱۸ ۲۷

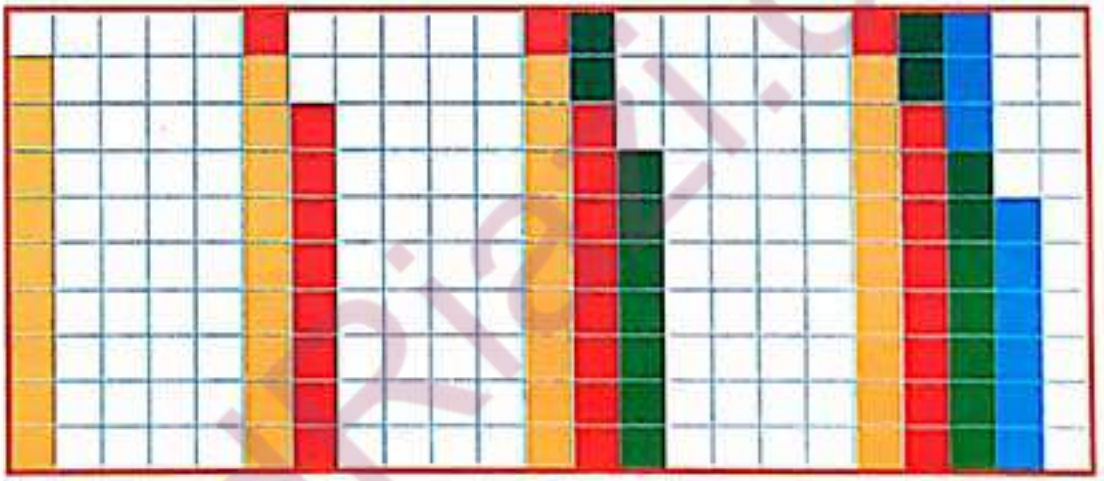

۹ ۱۸ ۲۷ ۳۶

حمید ۱۸ کتاب داستان دارد. امروز پدرش ۹ کتاب داستان دیگر به او داد. حالا حمید چند کتاب دارد؟

۲۷ کتاب دارد.

مریم ۹ کتاب داستان و ۲۷ کتاب علمی دارد. او روی هم چند کتاب دارد؟

۳۶ کتاب دارد.

دانش‌آموزان بدون رسم شکل با استفاده از چیزها و به کمک ماشین حساب می‌توانند عد
حساب را آموزش دهید. در صورتی که ماشین حساب در اختیار دارید، می‌توانید برای پیدا کردن عدد بعدی از ماشین حساب استفاده کنید.

OstadRiazi.com